CONCURSO PÚBLICO

Concurso Público para provimento dos cargos do quadro de pessoal do Município de Itumbiara – GO

ASSISTENTE SOCIAL

CADERNO DE QUESTÕES

30/03/2025

DISCIPLINA	QUESTÕES
Língua Portuguesa	01 a 10
Matemática	11 a 20
Atualidades e História, Geografia e Conhecimentos Gerais de Goiás e de Itumbiara-GO	21 a 25
Noções de Informática	26 a 30
Conhecimentos Específicos do Cargo	31 a 50
Prova Discursiva	-

SOMENTE ABRA ESTE CADERNO QUANDO AUTORIZADO

LEIA ATENTAMENTE AS INSTRUÇÕES

Atenção: Transcreva no espaço designado da sua FICHA DE IDENTIFICAÇÃO, com sua caligrafia usual, considerando as letras maiúsculas e minúsculas, a seguinte frase:

Pétalas caíram, suavemente, pelo chão.

1. Quando for autorizado abrir o caderno de questões, verifique se ele está completo ou se apresenta imperfeições gráficas que possam gerar dúvidas. Se isso ocorrer, solicite outro exemplar ao fiscal de sala.

2. Este caderno é composto por questões de múltipla escolha e prova discursiva. Cada questão apresenta 4 (quatro) alternativas de respostas, das quais apenas uma é a correta. A prova discursiva é composta por 1 (uma) questão sobre o conteúdo programático previsto para os conhecimentos específicos do cargo e deverá ser respondida em, no máximo, 30 (trinta) linhas.

3. O cartão-resposta é personalizado e não será substituído em caso de erro no preenchimento. Ao recebê-lo, confira se seus dados estão impressos corretamente. Se houver erro de impressão, notifique o fiscal de sala.

4. Preencha, integralmente, um alvéolo por questão, utilizando caneta de tinta AZUL ou PRETA, fabricada em material transparente. A questão deixada em branco, com rasura ou com marcação dupla terá pontuação ZERO.

QUESTÃO 01

Leia o texto a seguir.

Rebelião no Cepaigo

Presidente do Tribunal de Justiça, secretário de Segurança, promotores e juízes são feitos reféns por presos que exigem armas e veículos para fugir

O POPULAR. Capa. Edição de 29 mar. 1996.

O uso das vírgulas na manchete acima apresenta a função de

(A) delimitar o aposto.

(B) omitir expressões verbais.

(C) separar orações intercaladas.

(D) enumerar termos.

QUESTÃO 02

Leia o trecho a seguir.

> [...] só é Artista quem Entrega
> a explosão
> aos pés do público
> com ritmo, poesia, beleza
> ainda que ele esteja dançando um crime.

BEI, Aline. *Pequena Coreografia do Adeus*. São Paulo: Companhia das Letras, 2021.

Nesta passagem de *Pequena Coreografia do Adeus*, a sentença “ainda que ele esteja dançando um crime” expressa a ideia de

(A) concessão.

(B) condição.

(C) causa.

(D) finalidade.

QUESTÃO 03

Leia o texto a seguir.

> Em clima de celebração pela possível indicação de Ainda Estou Aqui ao Oscar 2025, o Cinesesc São Paulo realizará uma reexibição especial de Terra Estrangeira, filme dirigido por Walter Salles e Daniela Thomas, e estrelado por Fernanda Torres. O filme conta a história de Alex (Torres), uma jovem de São Paulo que vive em Lisboa, onde trabalha como garçonete e enfrenta um relacionamento complicado com Miguel (Alexandre Borges), um músico com dependência em heroína.

Disponível em: <https://www.cnnbrasil.com.br/entretenimento/terra-estrangeira-de-walter-salles-com-fernanda-torres-ganha-reexibicao/>. Acesso em: 25 jan. 2025.

Em relação à tipologia textual, o trecho pode ser considerado um texto:

(A) descritivo, por apresentar ao leitor uma atração de possível interesse público.

(B) narrativo, por relatar acontecimentos em determinado espaço-tempo.

(C) argumentativo, por destacar o sucesso comercial e crítico das obras citadas.

(D) injuntivo, por instruir o leitor em relação ao modo de consumo dos filmes.

QUESTÃO 04

Leia o texto a seguir.

> Toda vez que visito meu pai, é a mesma coisa: fico no meio da revolta dele contra o uso de “a gente”. Ele fica indignado porque os jornalistas da Globonews usam “a gente”, “a gente”, “a gente”, diz que “é um desserviço à educação”, um “empobrecimento da língua”, e fica preocupado com o futuro e o que vai ser do mundo, só por causa desse “a gente”. Aí, depois de todo o textão, de repente ele solta: “A gente precisa pensar no almoço”.

Disponível em: <https://www.roseta.org.br/2018/05/16/nem-sempre-as-pessoas-falam-aquilo-que-dizem-que-falam/>. Acesso em: 12 jan. 2025.

O texto acima descreve um caso de julgamento de formas linguísticas de acordo com a avaliação social que lhes é conferida. A negação pelo uso da expressão “a gente” no texto está associada

(A) à pressão institucional de órgãos públicos.

(B) ao desvio gramatical da forma consagrada “nós”.

(C) à sua assimilação como marca de identidade.

(D) ao avanço de políticas da linguagem simples.

QUESTÃO 05

Leia a tirinha a seguir.

WALKER, Mort. *Recruta Zero*. 1996.

O pronome demonstrativo “isso” no terceiro quadrinho apresenta função

(A) catafórica, por fazer referência a algo não dito.

(B) anafórica, por retomar termos ditos anteriormente.

(C) dêitica, por apontar a algum elemento contextual.

(D) coesiva, por substituir o substantivo “coordenadas”.

QUESTÃO 06

Leia o texto a seguir.

> Está aí uma coisa que discordo. Virou clichê essa frase e esconde nuances. Mesmo nos casos que dependam de ação humana, a IA tende a potencializar o trabalho de um profissional e o impacto pode ser redução de postos de trabalho. Outras atividades podem ser totalmente automatizadas.

Disponível em: <https://www.threads.net/@profrafaelbittencourt/post/DFFfXcOOIBG>. Acesso em: 26 jan. 2025.

Segundo a norma padrão, no trecho acima, há um desvio de:

(A) regência verbal, pois falta a preposição “de”, exigida pelo verbo “discordar”.

(B) regência nominal, pois falta a preposição “com”, exigida pelo nome “nuances”.

(C) concordância verbal, pois o verbo “depender” deveria estar no singular para concordar com “mesmo”.

(D) concordância nominal, pois falta o artigo feminino antes de “redução de postos de trabalho”.

QUESTÃO 07

Leia o texto a seguir.

> Batizado de Trilha Chica Machado, o percurso tem 500 metros de caminho de terra. Os outros 2,5 quilômetros são asfaltados. A inauguração foi feita pela Agência Municipal de Meio Ambiente de Goiânia (AMMA) no domingo (24), no Núcleo Socioambiental do Parque Macambira Anicuns, no Setor Novo Horizonte. Conforme a AMMA, o nome escolhido para a trilha faz homenagem a Chica Machado, uma mulher negra que foi comprada como escrava aos 13 anos e se tornou influente, rica e respeitada no Arraial de Cocal, área rural próxima ao município de Niquelândia. Segundo a história, que é contada entre gerações de habitantes locais, a mulher comprava escravos para libertá-los.

Disponível em: <https://g1.globo.com/go/goias/noticia/2022/07/25/goiania-passa-a-ter-trilha-de-3-km-ligando-os-parques-macambira-anicuns-e-bernardo-elis-veja-rota.ghtml>. Acesso em: 19 jan. 2025.

No decorrer do texto, para evitar a repetição do nome Chica Machado, utiliza-se como recurso coesivo o uso de

(A) sinônimos.

(B) parônimos.

(C) pronomes.

(D) substantivos.

QUESTÃO 08

Leia o texto a seguir.



Disponível em: <https://www.gazetadopovo.com.br/vozes/conexao-brasilia/se-voce-acha-aecio-x-dilma-barra-pesada-nao-viu-esse-debate/amp/>. Acesso em: 01 fev. 2025.

Associada a imagem ao texto, o modo como os candidatos à presidência é representado ilustra o debate eleitoral como

(A) expressão da violência política no cenário pós-ditatorial.

(B) palco de disputas para conquista de maior número de eleitores.

(C) recurso de ataque e defesa contra adversários políticos.

(D) recorte de um cenário de acirrada polarização ideológica.

QUESTÃO 09

Leia as sentenças a seguir.

I. O Itumbiara liderou o Campeonato de ponta a ponta.
II. Nas casas de campo, apanhava de chicote.

A preposição “de”, além de tradicionalmente cumprir sua função gramatical no sistema de transitividade, desempenha uma função lexical em ambas as ocorrências. Respectivamente, nas duas sentenças acima, a preposição “de” indica relações semânticas de

(A) extensão e posição.

(B) extensão e instrumento.

(C) posse e posição.

(D) posse e instrumento.

QUESTÃO 10

Leia o texto a seguir.

“Muitos influenciadores acham os *briefings* burocráticos, engessados e os prazos curtos, o que dificulta a entrega do conteúdo conforme a estratégia da marca. Mas o que muitos não percebem é que as campanhas publicitárias têm uma estratégia por trás, que envolve não só o influenciador, mas uma série de outros fatores, como cronogramas, equipe de social media e preocupações com estoque e distribuição de produtos. Quando o influenciador não cumpre o prazo ou o *briefing*, isso pode gerar grandes problemas para a marca”, pontua a jornalista.

Disponível em: <https://oglobo.globo.com/ela/noticia/2025/01/24/planilha-polemica-com-avaliacoes-sobre-influenciadores-repercute-na-web-e-especialista-chama-a-atencao-desrespeito-aos-contratos-de-sigilo.ghtml>. Acesso em: 24 jan. 2024.

O uso da palavra “*briefing”* no contexto digital expressa

(A) a predominância dos países anglófonos sobre o mercado publicitário.

(B) a necessidade de formalização de contratos a partir de termos jurídicos.

(C) o avanço da burocratização de ocupações como a dos influenciadores digitais.

(D) a inexistência de termos em língua portuguesa para descrever novas práticas digitais.

RASCUNHO

QUESTÃO 11

Dados os conjuntos $A = \{ x \in \mathbb{R} \mid -1 < x \leq 7\}$ e $B = \{x \in \mathbb{R} \mid 2 \leq x < 3 \}$. A diferença de conjuntos $A - B$ é igual a

(A) $]-1,2[\cup [3,7]$.

(B) $]-1,2] \cup [3,7]$.

(C) $]-1,2[\cup]3,7]$.

(D) $]-1,2] \cup]3,7]$.

QUESTÃO 12

Dados os números inteiros $a = 2^3 \times 3^2 \times 5^4$ e $b = 2 \times 3^3 \times 5^2$. O quociente entre o Máximo Divisor Comum (MDC) e o Mínimo Múltiplo Comum (MMC) entre a e b, $\frac{MDC(a,b)}{MMC(a,b)}$ é

(A) um número inteiro.

(B) uma dízima finita.

(C) uma dízima periódica infinita.

(D) uma dízima não periódica infinita.

QUESTÃO 13

Um time de futebol composto por cinco jogadores dispõe de 10 atletas, sendo que dois atletas jogam somente no gol. Quantos times diferentes podem ser formados?

(A) 140 times.

(B) 196 times.

(C) 3.360 times.

(D) 10.080 times.

QUESTÃO 14

Uma urna contém 3 bolas brancas, 5 bolas vermelhas e 3 bolas pretas, totalizando 11 bolas. Qual a probabilidade de retirar aleatoriamente uma bola que não seja vermelha?

(A) $\frac{1}{11}$.

(B) $\frac{3}{11}$.

(C) $\frac{4}{11}$.

(D) $\frac{6}{11}$.

QUESTÃO 15

Um grupo de 5 trabalhadores conclui uma tarefa em 30 horas. Quantas horas levaria para um grupo de 6 trabalhadores, com o mesmo ritmo de trabalho, concluir a mesma tarefa?

(A) 20 horas.

(B) 22 horas.

(C) 25 horas.

(D) 36 horas.

QUESTÃO 16

Um título no valor de R$ 1.600,00 vence em 60 dias. Considerando uma taxa de desconto comercial simples de 3% ao mês, qual será o valor líquido a ser recebido após o desconto?

(A) R$ 1.502,56.

(B) R$ 1.504,00.

(C) R$ 1.509,43.

(D) R$ 1.510,00.

QUESTÃO 17

Qual é a condição para que o número complexo $(\sqrt{2} + i\sqrt{2})^n$, em que i é a unidade imaginária e n é um número inteiro positivo, seja um número real?

(A) n seja múltiplo de 2.

(B) n seja múltiplo de 3.

(C) n seja múltiplo de 4.

(D) n seja múltiplo de 6.

QUESTÃO 18

Um grupo de coelhos dobra sua população ao final de cada mês. Sabendo que no início de um certo mês havia 100 coelhos, quantos coelhos com até 2 meses de vida existirão ao final de um ano?

(A) 153.600 coelhos.

(B) 186.400 coelhos.

(C) 204.800 coelhos.

(D) 304.200 coelhos.

QUESTÃO 19

Considere a função $f(x) = 2(1 - e^{-x})$. Uma parte do gráfico de $f(x)$ é igual a

(A)

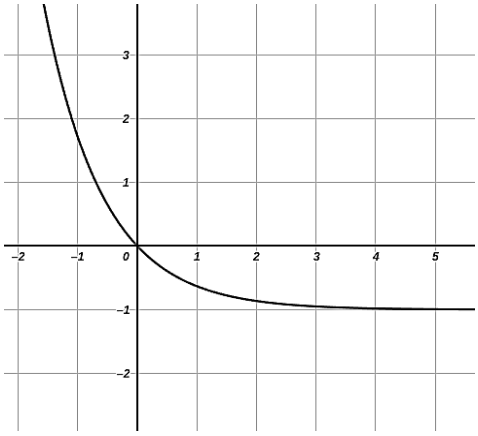

(B)

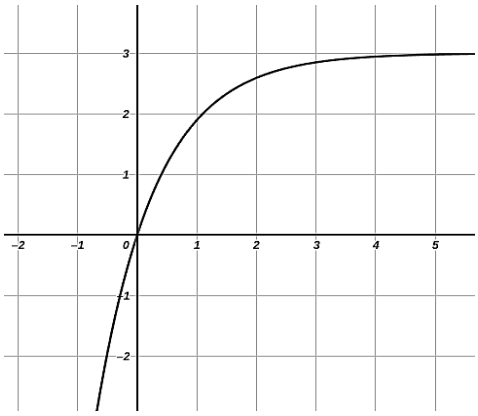

(C)

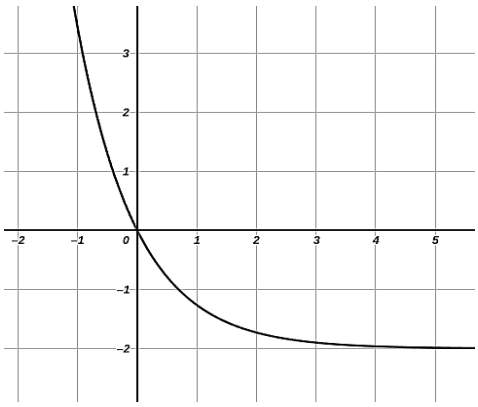

(D)

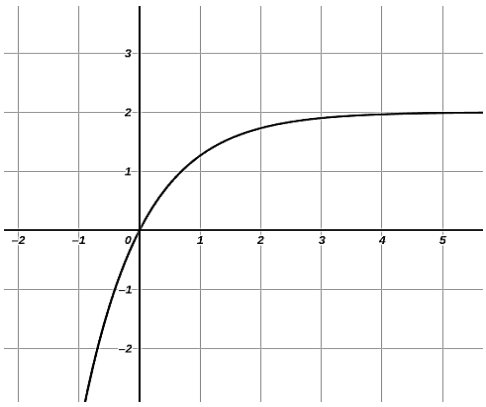

QUESTÃO 20

Para que o perímetro de um quadrado de lados medindo $a > 0$ seja igual à área de um triângulo equilátero com lados também medindo a, é preciso que

(A) $a = 5\sqrt{3}$.

(B) $a = \frac{16\sqrt{3}}{3}$.

(C) $a = 5\sqrt{5}$.

(D) $a = \frac{16\sqrt{5}}{5}$.

RASCUNHO

QUESTÃO 21

Conforme dados do Instituto Mauro Borges e da Defensoria Pública goiana, a quantidade absoluta de pessoas vulneráveis pelo critério de renda concentra-se nas comarcas de Goiânia, Aparecida de Goiânia e Águas Lindas de Goiás, com 255.345, 92.154 e 89.291 pessoas, respectivamente. Entretanto, as maiores proporções relativas dessa vulnerabilidade estão nas comarcas de Cavalcante (59,9%), Iaciara (57,5%) e Santa Terezinha de Goiás (53,6%) – todas cidades da região intermediária de Luziânia - Águas Lindas de Goiás e antigo nordeste goiano. A diferença nos resultados das cidades, quando considerados valores absolutos e relativos, se justifica respectivamente pela

(A) ausência de indústria e concentração de recursos naturais.

(B) concentração populacional e alta desigualdade social na região.

(C) proximidade com a capital e proximidade com o nordeste brasileiro.

(D) aparição do crime organizado e existência de comunidades tradicionais.

QUESTÃO 22

Leia o texto a seguir.

> O coro das Igrejas e as bandas de música foram a escola de músicos vilaboenses, onde se salientaram os regentes de coros, orquestras e banda, excelentes instrumentistas e onde também os cantores puderam desenvolver suas qualidades vocais. A vida girava em torno da Igreja e a música pelo nosso sertão quase que se desenvolvia em função da liturgia, dado aí a frequente inspiração sacra dos nossos compositores. Valorizavam muito os músicos e a eles dispensavam uma especial atenção oferecendo, após a cerimônia, cartuchos de confeitos de amêndoas, sequilhos, chá, café, garrafas de vinho tinto, moscatel do Porto e aguardente do Reino, como relatam os livros da irmandade dos Passos. Esta Irmandade criou o coro para a Semana Santa, possuindo um razoável número de músicos.

CALADO, M. A. Modinha em Goiás. *Apud*: TELES, J. M. *No Santuário de Cora Coralina*. Goiânia, Ed. Kelps. 4ª ed., 2010, p. 85. [Adaptado].

O texto enfatiza qual aspecto da religiosidade goiana?

(A) O descaso com manifestações pagãs.

(B) A determinação em eliminar o laicismo.

(C) O empenho em fomentar a cultura local.

(D) A vontade de padronizar a música regional.

QUESTÃO 23

Leia o texto a seguir.

> Observa-se que Itumbiara desempenha papel importante como polo de concentração econômica das atividades vinculadas ao campo e como importante polo industrial. O crescimento do município ocorreu em duas etapas, sendo a primeira na década de 1950, motivada pela agricultura, com a produção de arroz e posteriormente milho, e em 1972, com a chegada de Furnas à Itumbiara. A empresa aproveitou o potencial energético do Rio Paranaíba para construir sua maior usina hidrelétrica. Historicamente, o Estado de Goiás teve grande impulso com a agropecuária alavancando a criação da agroindústria e, posteriormente, atraindo outras indústrias, como no caso de Itumbiara, devido sua localização ou pela intervenção pública por meio de incentivos fiscais.

FIEG. *Polos industriais do estado de Goiás*: Itumbiara. Goiânia: Federação das Indústrias do estado de Goiás, 2018, p. 13.

Por qual motivo o texto associa o desenvolvimento da atividade produtiva com o crescimento urbano?

(A) O crescimento de imigrantes em busca de trabalho.

(B) O desenvolvimento dos recursos tecnológicos.

(C) O alargamento da desigualdade econômica.

(D) A ampliação da concentração da renda.

QUESTÃO 24

Leia o texto a seguir.

> Fragmento a unidade e falo do mapa de Goiás,
> fazendo a chamada das localidades principais.
> não as de maior número de habitantes e produção,
> mas as que trazem no nome a poesia do sertão.
>
> Chamo os municípios, os distritos e os povoados
> (os arraiais, os patrimônios, as bibocas do mato)
> e lhes corto de improviso alguma força e referência
> para que tenham peso próprio na pronúncia e na lenda.
>
> Tento perdoar aos políticos o mau gosto dos sufixos
> com que familiarmente formam topônimos ridículos,
> em -ânia, em -ândia e em -alópolis, apesar do evocatório
> que envolve os nomes de Goiânia, Hidrolândia e Pirenópolis.
>
> É bom ouvir no termo o prefixo da pedra-lascada
> acendendo no silêncio a pederneira das palavras:
> Itaberaí, Itacajá, Itaguaru, Itarumã,
> Itá, Itaguatins, Itumbiara, Itapirapuã.
> E também Itapaci, Itapuranga, Itauçu,
> Itaúna, Itapiratins, Itaguari e Itaguaçu.

TELES, G. M. Localidade. *In*: TELES, G. M. *Hora aberta*. 4ª ed. Petrópolis: Editora Vozes, 2003, p. 370. [Adaptado].

Utilizando os nomes das cidades goianas, de que forma o poema valoriza a identidade regional?

(A) Debochando dos nomes tradicionais.

(B) Criticando as grandes metrópoles.

(C) Eliminando a influência grega.

(D) Prestigiando a herança indígena.

QUESTÃO 25

Leia o texto a seguir.

> Em Itumbiara, se por um lado a expansão territorial foi contida pelos limites impostos pelo rio Paranaíba à sudeste, nota-se uma dispersão intensa em direção ao norte (eixo da rodovia BR-153) e noroeste (avenida Modesto de Carvalho em direção à BR-452). Outro fator que influenciou diretamente foi a localização industrial, sobretudo se consideramos a implantação do Distrito Agroindustrial de Itumbiara – DIAGRI, no extremo oeste da cidade. Além disso, vale destacar o papel das áreas residenciais no processo de dispersão territorial ao longo das últimas décadas, seja por meio de loteamentos privados quanto a partir de conjuntos habitacionais implantados pelo poder público. Grande parte destes empreendimentos foram implantados em áreas periféricas mais distantes, a norte e a oeste.

MIYAZAKI, V. K. Análise da morfologia urbana em Itumbiara (GO). *Espaço em Revista* | v. 21, n. 1. jan./jun. 2019, p. 29-30. [Adaptado].

O processo descrito no texto gerou qual impacto na cidade de Itumbiara?

(A) A inviabilidade do escoamento de mercadorias.

(B) A dependência dos empregos no agronegócio.

(C) O endividamento da construção civil.

(D) O crescimento urbano disperso.

RASCUNHO

RASCUNHO

QUESTÃO 26

Um servidor da secretaria de comunicação está configurando sua conta de e-mail no Outlook. Ele deseja configurar uma conexão segura para o recebimento das mensagens. Qual protocolo e porta ele deve utilizar, respectivamente?

(A) POP3, porta 110.

(B) IMAP, porta 143.

(C) POP3, porta 25.

(D) IMAP, porta 993.

QUESTÃO 27

A secretaria de obras utiliza o Microsoft Excel 365 para verificar se um valor em A1 é múltiplo de 5, exibindo “Sim” ou “Não” na célula C1. Qual fórmula deve ser usada em C1?

(A) =SE(A1=5;"Sim";"Não")

(B) =SE(MOD(A1;5)=0;"Sim";"Não")

(C) =SE(A1/5;"Sim";"Não")

(D) =SE(MOD(5;A1)=0;"Sim";"Não")

QUESTÃO 28

No Microsoft Word 365, em qual guia fica a opção para iniciar a criação de uma mala direta?

(A) Inserir.

(B) Referências.

(C) Correspondências.

(D) Exibir.

QUESTÃO 29

No sistema operacional Windows 11, ao realizar a personalização da Central de Ações para permitir notificações de aplicativos e alertas do sistema, qual caminho deve ser seguido na interface gráfica?

(A) Configurações → Sistema → Notificações.

(B) Painel de Controle → Segurança e Manutenção → Notificações.

(C) Windows Settings → Sistema → Alertas.

(D) Gerenciador de Notificações → Ações.

QUESTÃO 30

Um servidor precisa pesquisar sobre licitações públicas e deseja refinar os resultados para incluir apenas informações de páginas governamentais. Qual operador ele deve usar no Google para restringir a pesquisa a domínios “.gov.br”?

(A) Site:gov.br

(B) Domain:gov.br

(C) Restrict:gov.br

(D) Filter:gov.br

RASCUNHO

QUESTÃO 31

A seguridade social instituída na Constituição Federal de 1988 representou um avanço no processo de redemocratização na sociedade brasileira. Entretanto, as sucessivas contrarreformas provocam desmontes e fragmentação, sobretudo,

(A) nos benefícios sociais, nos princípios de seletividade e de arrecadação e no orçamento.

(B) nos direitos, nos espaços de participação e de controle social e no financiamento.

(C) nas políticas sociais, nas requisições das demandas e dos serviços e na desvinculação.

(D) nas leis, nas políticas de ajuste e de contribuição previdenciária e na seletividade.

QUESTÃO 32

O projeto ético-político do serviço social tem como referência teórica o materialismo histórico-dialético vinculado à construção de uma nova ordem social no horizonte da emancipação humana. Elege como valor central a liberdade, relacionando-a com a

(A) autonomia, a emancipação e a plena expansão dos indivíduos sociais, compreendidas como o fim da dominação e da exploração do homem pelo homem.

(B) superação do preconceito de gênero, de raça e de etnia, elencadas pela defesa dos direitos e da razão instrumental pelo fim do arbítrio e da exclusão social.

(C) universalidade, a sociabilidade e a conscientização, pautadas em propostas metodológicas cientificamente planejadas como produto abstrato do pensamento.

(D) ideação de valores, de princípios e de ações democráticas, garantidas pelos interesses da lógica formal com vistas ao respeito e a sua individualidade.

QUESTÃO 33

As reflexões empreendidas pela categoria de assistentes sociais demarcam a existência de uma relação entre o projeto ético-político do serviço social e o projeto de reforma sanitária. Quais são os grandes eixos que denotam essa relação?

(A) As diretrizes e demandas sociais, a dimensão interventiva e os objetivos.

(B) Os fóruns consultivos e deliberativos, os valores éticos e os posicionamentos.

(C) Os aportes e referências teóricas, a formação profissional e os princípios.

(D) As instâncias políticas e jurídicas, o método em Marx e as regulamentações.

QUESTÃO 34

Para reforçar a ordem capitalista, o avanço da ofensiva neoconservadora ameaça sobretudo a democracia e os direitos conquistados. Nesse contexto, o serviço social é desafiado a construir mediações ideopolíticas que primem pela defesa dos direitos a partir de lutas e alianças tanto

(A) contra o preconceito social, assegurando o ecletismo, respeitando o princípio da dignidade da pessoa humana e fortalecendo o projeto profissional, quanto no apoio às ações que minimizem as consequências do projeto privatista.

(B) dentro dos campos institucionais, garantindo as dimensões constitutivas da profissão, resguardando o sigilo e promovendo a conscientização da população, quanto no suporte técnico-operativo dos diferentes interesses políticos.

(C) contra o desrespeito à livre iniciativa, assegurando os saberes entre as áreas do conhecimento, preservando valores éticos e referendando a teoria da complexidade, quanto no suporte aos atores sociopolíticos divergentes.

(D) dentro dos espaços de trabalho, politizando as ações, construindo novas práticas e buscando ocupar instâncias de controle social, quanto no apoio às resistências cotidianas das classes subalternas em suas lutas na sociedade.

QUESTÃO 35

As políticas sociais são resultantes das relações sociais do modo de produção capitalista, permeadas por determinações históricas. Constituem respostas do Estado à questão social, tendo em sua natureza a

(A) configuração ideopolítica e os entornos sociais, mantendo sua importância na órbita das relações classistas e da construção coletiva do consenso.

(B) preservação e o controle da força de trabalho, sem perder de vista sua relevância como expressão de lutas e conquistas dos direitos da classe trabalhadora.

(C) adesão popular e a manutenção da estrutura social, sem deixar de considerar a inserção em uma sociedade diversa, que tem, nos direitos sociais, seu fio condutor.

(D) garantia e o tensionamento da superestrutura, preservando sua relevância nos elementos que compõem e afirmam os aparelhos ideológicos do Estado.

QUESTÃO 36

As dimensões constitutivas da profissão configuram uma unidade de elementos diversos que se interrelacionam, ou seja, só existem na relação de umas com as outras. O serviço social, considerado uma profissão de natureza interventiva, tem, na dimensão técnico-operativa, a

(A) forma de aparecer da profissão, pela qual ela é conhecida e reconhecida socialmente, expressando sua autoimagem.

(B) expressão do fazer profissional, pela qual é tensionada e atravessada no cotidiano, demarcando sua heterogeneidade.

(C) garantia da ação profissional, pela qual é constituída e delimitada pelos usuários, problematizando sua singularidade.

(D) maneira de avaliar a profissão, pela qual é demandada e interpelada institucionalmente, subjetivando sua identidade.

QUESTÃO 37

O aprofundamento da crise contemporânea demonstra que, no capitalismo, as crises não são fenômenos eventuais, mas processos no movimento de expansão do capital devido à queda tendencial da taxa de lucro, provocada pela

(A) crise sanitária nos países centrais, pelo alargamento das atividades econômicas e pela venda flutuante de produtos, que se deterioram em virtude da dificuldade de acesso aos bens e serviços socialmente produzidos.

(B) relação social de produção, pelo crescimento da valorização imposta no mercado e pela concorrência desenfreada entre os monopólios, que se tornam a mola propulsora em decorrência do capital especulativo.

(C) reestruturação produtiva, pelo aprofundamento da superexploração do trabalho e pela ampliação da população sobrante, que não são absorvidas nas nações em razão das sobrepujantes relações de poder e hierarquia.

(D) concorrência intercapitalista, pelo aumento da produtividade do trabalho e pela superprodução de mercadorias, que não conseguem ser consumidas em função dos baixos salários e do desemprego crescente.

QUESTÃO 38

Na ética marxista, os valores se materializam em respostas, motivo pelo qual toda ação tem uma dimensão ética. Por vezes, nos serviços de saúde, as(os) assistentes sociais são requisitados para atuarem nas lacunas dos serviços, tornando-se imperioso o posicionamento ético que seja

(A) divergente às práticas pautadas no atendimento direto ao cidadão, prevendo competências como contato com familiares informando o óbito e as transferências para outras unidades, em acordo com a equipe multiprofissional.

(B) oposto à identificação de aspectos econômicos, políticos, sociais e culturais que atravessam o processo de saúde-doença, antecipando as demandas advindas do cotidiano com base no saber vivência, determinados nos protocolos de saúde.

(C) contrário às ações incompatíveis com as atribuições profissionais, assumindo um ponto nevrálgico na saúde, que é o direito humano à comunicação, inscrito no Código de Ética profissional como o compromisso à socialização de informações.

(D) antagônico à atitude de promoção e de prevenção pautada nos determinantes sociais de saúde, projetando o exercício profissional a partir dos desafios e das possibilidades, implementados pela Organização Mundial de Saúde (OMS).

QUESTÃO 39

A Política Nacional de Promoção da Saúde (PNPS) considera a promoção em saúde como uma estratégia de

(A) articulação transversal, na qual se confere visibilidade aos fatores que colocam a saúde da população em risco e às diferenças entre necessidades, territórios e culturas presentes no Brasil.

(B) ações que primem para a atenção primária, na qual se estabelecem critérios em consonância com os princípios e as diretrizes do SUS, envolvendo serviços voltados para os agravos de saúde.

(C) intersetorialidade e de equidade, na qual se oferecem condições adequadas à população em vulnerabilidade, estabelecida por aspectos socioeconômicos com vistas à melhoria dos serviços.

(D) efetivação da educação em saúde, na qual se garantem compromissos estabelecidos no pacto em defesa da vida, priorizando o acesso com qualidade do atendimento no âmbito do SUS.

QUESTÃO 40

As transformações no mundo do trabalho, em tempos de degradação e precarização, repercutem no trabalho das(os) assistentes sociais nos diferentes espaços sócio-ocupacionais, exigindo dessas(es) profissionais, tanto ações

(A) baseadas nas solicitações das instituições empregadoras quanto requeridas pelas equipes de trabalho com foco no aporte teórico-metodológico, capaz de organizar, produzir e efetivar em consonância com os protocolos e os instrumentais do serviço social.

(B) pautadas nas competências e nas atribuições profissionais quanto subsidiadas pela análise crítica, comprometida e fundamentada nas dimensões constitutivas do serviço social, capaz de formular, recriar e avaliar o trabalho à luz do projeto ético-político.

(C) estruturadas pelas diferentes políticas sociais públicas quanto amparadas pelas perspectivas ontológicas construídas no pensamento, capazes de elaborar, fundamentar e transpor do ideal para o real, na perspectiva do racionalismo científico.

(D) orientadas pelas entidades político-acadêmico-científicas da categoria quanto apoiadas pela base conceitual, reflexiva e de natureza epistemológica, capaz de instrumentalizar, desenvolver e regular as técnicas de acordo com os objetivos institucionais.

QUESTÃO 41

A particularidade do trabalho da(o) assistente social na educação expressa a dinâmica contraditória dessa política na sociedade capitalista, sendo constituída por diferentes dimensões voltadas à

(A) socialização de informações, à dignidade da pessoa humana e à qualidade social, todas capturadas nas particularidades da unidade escolar pelas(os) usuárias(os) com vistas à garantia da pedagogia das competências.

(B) defesa da equidade, à liberdade como valor central e à justiça na constituição do ser social, todas pautadas nos princípios da pedagogia da autonomia com vistas à defesa da democracia e da liberdade da classe trabalhadora.

(C) conquista dos direitos sociais e humanos, à superação do preconceito e à participação popular, todas estruturadas na lógica social do capital com vistas à proteção social e ao respeito pela igualdade de oportunidade.

(D) garantia do acesso e da permanência, à gestão democrática e à qualidade da educação, todas inscritas no bojo das lutas sociais pelo reconhecimento da educação como direito com vistas à emancipação humana.

QUESTÃO 42

A reconceituação do serviço social no Brasil demarcou a emergência de projetos diferentes frente aos questionamentos da profissão no seu movimento com a realidade. Isso resultou na explicitação de quais vertentes heterogêneas?

(A) Eclética, tradicional conservadora e neotomista doutrinária.

(B) Libertária, social funcionalista e estrutural conservadora.

(C) Modernizadora, reatualização do conservadorismo e intenção de ruptura.

(D) Pós-moderna, reacionária conservadora e construtivista reflexiva.

QUESTÃO 43

A Política de Cotas e a Política Nacional de Assistência Estudantil (PNAES) compõem o arcabouço das políticas de ações afirmativas nas instituições federais de ensino, demarcando avanços na garantia do direito ao acesso à permanência. Entretanto, essas políticas

(A) afirmam a desigualdade social, diante do viés estadunidense e burguês no atendimento àqueles que não necessitam.

(B) reiteram a subalternidade, diante da adoção de medidas seletivas, pontuais, burocratizadas e fragmentadas.

(C) gestam uma cisão entre discentes, diante das orientações às pessoas com deficiência com caráter seletivo.

(D) estipulam ações aos grupos específicos, diante dos pressupostos de que todos são iguais perante a lei.

QUESTÃO 44

As políticas sociais têm suas bases alicerçadas nas contradições da sociabilidade capitalista. No Brasil, suas configurações recentes evidenciam a

(A) desresponsabilização, a desqualificação e a despolitização da política social, incidindo nos desmontes dos direitos sociais.

(B) precarização, a privatização e a acumulação societária da política social, intervindo na garantia dos propósitos obscurantistas.

(C) disparidade, a naturalização e a problemática da política social, influenciando na disputa da riqueza e na efetivação dos serviços.

(D) pobreza, a flexibilização e a heterogeneidade da política social, incorrendo nos propósitos da exclusão social e da subalternidade.

QUESTÃO 45

O controle social no SUS ocorre a partir de instâncias formais e colegiadas. Entre elas, destacam-se os conselhos de saúde, espaços privilegiados do trabalho da(o) assistente social, que se constituem como

(A) processos de contestação dos direitos entre as políticas sociais de sujeitos, frente à necessidade de certificar as desigualdades.

(B) meios de garantia dos princípios de justiça social através de proposições analíticas que reafirmem as expressões da questão social.

(C) instrumentos de defesa pela criação de consensos diante dos diferentes interesses que emergem no bojo das relações estabelecidas.

(D) mecanismos de luta pela democratização das relações entre o Estado e a sociedade por meio da participação de novos sujeitos políticos.

QUESTÃO 46

A Política Nacional de Saúde da Pessoa Idosa (PNSPI) foi aprovada pela Portaria nº 2.528/2006 frente à necessidade de atualização da Portaria nº 1.395/1999, estabelecendo-se como um dos instrumentos gerenciais imprescindíveis a

(A) avaliação funcional individual e coletiva.

(B) atenção especializada grupal e igualitária.

(C) promoção e prevenção das ações de saúde.

(D) abordagem socioeducativa e intersetorial.

QUESTÃO 47

O Conselho Federal de Serviço Social (CFESS, 2010) instituiu um documento intitulado “Parâmetros para a Atuação de Assistentes Sociais na Saúde”. O atendimento direto às(aos) usuárias(os) é um dos eixos estabelecidos, que se subdivide em 3 ações, sendo elas:

(A) preventivas, orientação sobre o processo de saúde e promocionais.

(B) investigativas, conscientização da comunidade e educação em saúde.

(C) socioassistenciais, articulação com a equipe de saúde e socioeducativas.

(D) interventivas, democratização de informações e agendamentos diversos.

QUESTÃO 48

A rede socioassistencial para pessoas em situação de rua tem como uma das unidades de referência da proteção social especial de média complexidade o centro de

(A) acolhimento e avaliação para população em situação de rua.

(B) atendimento psicossocial para população em situação de rua.

(C) monitoramento e atenção para população em situação de rua.

(D) referência especializado para população em situação de rua.

QUESTÃO 49

No Brasil, após 1988, as políticas de saúde, de assistência social e de previdência social configuram preceitos constitucionais que combinam princípios antagônicos e contraditórios, que expressam tanto

(A) os interesses econômicos de favorecimento do capital em detrimento das necessidades sociais quanto os processos de lutas e de conquistas da classe trabalhadora.

(B) o modelo do Estado de bem-estar social em consonância com a implantação efetivada na Europa quanto os marcos da mundialização do capital financeirizado.

(C) os aparelhos ideopolíticos incorporados nas agendas públicas do Estado capitalista burguês quanto os interesses dos setores mais vulneráveis dos trabalhadores.

(D) o processo de produção e de reprodução das relações sociais diante das condições objetivas de vida quanto os direcionamentos impostos pelos organismos internacionais.

QUESTÃO 50

A questão social é corolário do desenvolvimento capitalista e encontra-se no caráter coletivo da produção e da apropriação privada, sendo subjacente ao processo de acumulação e à exploração do trabalho, cuja contraface é a

(A) subalternidade, o desemprego estrutural e a naturalização da ordem social, ou seja, depreende-se a precariedade do processo de reprodução social como resultado da inserção do indivíduo.

(B) pobreza, o atual estágio do capitalismo e a mercantilização, ou seja, considera a financeirização do capital como modo de estruturação das relações sociais dos países em desenvolvimento.

(C) desigualdade social, o crescimento generalizado da pobreza e a luta de classes, ou seja, pressupõe a consciência da desigualdade e a resistência à opressão por parte da classe trabalhadora.

(D) exclusão, o processo de degradação dos direitos e a privatização das políticas, ou seja, implica compreender as antinomias dessa lógica do mercado diante dos desmontes da precarização.

RASCUNHO

RASCUNHO

PROVA DISCURSIVA

____Questão 01 _____

Analise o caso a seguir.

F. (30 anos), casada com J. (35 anos) residem em casa alugada com suas três filhas (R. e P., cinco anos; e A.,15 anos). Recebeu um telefonema informando a data agendada para o transplante de células-tronco hematopoiéticas (TCTH). Após esse telefonema, o casal compareceu ao atendimento com a assistente social B. do espaço sócio-ocupacional da unidade de saúde onde o paciente faz tratamento de leucemia para informar que o Sr. J. decidiu não fazer o transplante, devido às condições objetivas de vida, dentre elas a financeira. A fonte de subsistência do núcleo familiar advém do Bolsa Família e do trabalho informal do Sr. J. (quando consegue "bicos e sua saúde aguenta"), e ele nunca contribuiu com a Previdência Social. A Sra. F. parou de trabalhar para cuidar das filhas gêmeas, uma vez que ambas requerem necessidade de cuidado em tempo integral da mãe, diante da suspeita de diagnóstico do Transtorno do Espectro Autista. Em atendimento com o neurologista do SUS, foi solicitando o exame com uma neuropsicóloga para comprovar o diagnóstico; mas uma trabalhadora da secretaria da saúde do município onde reside informou que o exame não é feito pelo SUS, o que fez a mãe desistir do mesmo diante do valor na rede privada. Destaca-se, ainda, que a filha de 15 anos parou de estudar, posto que tinha interesse em fazer o curso técnico integrado ao ensino de nível médio no Instituto Tecnológico Federal, mas a mãe relata que não será possível devido às condições socioeconômicas da família, que não tem como pagar a inscrição e nem prover condições de permanência, como deslocamento – já que essa unidade educacional federal é distante de sua residência.

Diante deste relato, qual a intervenção empreendida pela assistente social levando em consideração o conteúdo programático sinalizado no edital acerca dos conteúdos específicos da área de Serviço Social?

(100 pontos)

FOLHA RASCUNHO

1
2
3
4
5
6
7
8
9
10
11
12
13
14
15
16
17
18
19
20
21
22
23
24
25
26
27
28
29
30